www.konkurskit.org

Всероссийский конкурс «Кит — компьютеры, информатика, технологии»

При необходимости задания могут зачитываться учителем.

Продолжительность тестирования – 45 минут.

2020 год **1 класс**

Задания, оцениваемые в 3 балла

1. Мама испекла торт на день рождения Маши. Сколько лет ей исполнилось?

А) 5 Б) 6 В) 7 Г) 8

2. На какой машине работает человек, нарисованный справа?

А) Б) В) Г)

3. Сколько всего компьютерных мышек нарисовано?

А) 2 Б) 3 В) 4 Г) 5

4. Перенеси буквы в пустые кружочки. Какое слово получилось?

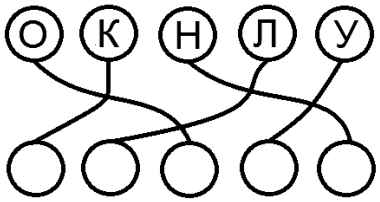

А) кулон Б) клоун

В) уклон Г) колун

5. Сколько всего прямоугольников изображено на рисунке справа?

А) 1 Б) 2 В) 3 Г) 4



6. Составь слово из первых букв названий объектов на картинках. Что получилось?



А) книга Б) белка В) дудка Г) кукла

7. Сколько всего кубиков в фигуре, нарисованной справа?

А) 6 Б) 7 В) 8 Г) 9

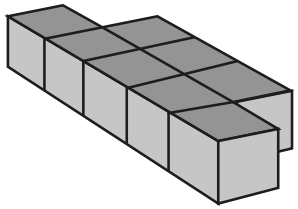

8. Сколько всего различий между рисунками справа?

А) 5 Б) 2

В) 3 Г) 4

9. Коля оставил на снегу следы, как на рисунке ниже:

Выбери верную последовательность Колиных действий.

А) Сначала бежал, потом шёл, потом стоял.

Б) Сначала стоял, потом шёл, потом прыгал на одной ноге.

В) Сначала стоял, потом прыгал на одной ноге, потом шёл.

Г) Сначала прыгал на одной ноге, потом стоял, потом шёл.

10. Какое наибольшее количество кубиков можно убрать на рисунке справа так, чтобы конструкция **не** рухнула?

А)1 Б) 2 В) 3 Г) 4

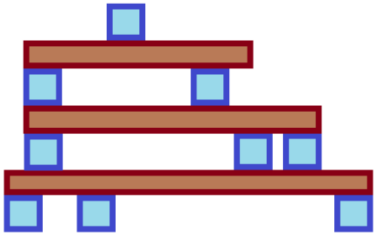

Задания, оцениваемые в 4 балла

11. Антон выше Бори и Вити, но ниже Гриши. Кто из них самый высокий?

А) Антон Б) Боря В) Витя Г) Гриша

12. Олег сложил слово *планшет* из фигур с буквами, а потом стёр все буквы. Какой набор фигур получился?

А)

Б)

В)

Г)

13. Сколько клеток будет занимать змейка после того, как съест все цветы и гриб, если, съедая цветок, она вырастает на одну клетку, а съедая гриб, на две?

А) 8 Б) 9 В) 10 Г) 4



14. Собери пазл. Какой фрагмент лишний?

А) 

Б) 

В) 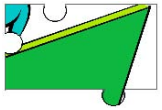

Г) 



В	Е	О
З	Р	Л
Т	Е	И

15. Какое слово зашифровал Юра при помощи двух таблиц?

5	2	8
7	9	3
1	4	6

А) велосипед Б) телефон В) телескоп Г) телевизор

Задания, оцениваемые в 5 баллов

16. Выбери адрес электронной почты.

А) 04.128.62.214 Б) admin@konkurskit.org

В) ящик107.индекс450015 Г) www.konkurskit.org

17. Запиши слово *улов.* Замени первую букву на букву *п.* Замени последнюю букву на букву *к.* Поменяй местами средние буквы. Что получилось?

А) плов Б) клок В) клоп Г) полк

18. Схема движения сапёра из точки А по минному полю такова:

↑ ↑ → ↓ ← ← ↑ → ↑ → ↓ →

Как выглядит самый короткий путь сапёра назад в точку А?

А) ↓ ↓ ← ↑ → → ↓ ← ↓ ← ↑ ←

Б) ← ↑ ← ↓ ← ↓ → → ↑ ← ↓ ↓

В) ↑ ↑ → →

Г) ← ↓ ← ↓