www.konkurskit.org

Всероссийский конкурс «Кит — компьютеры, информатика, технологии»

При необходимости задания могут зачитываться учителем.

Продолжительность тестирования – 45 минут.

2019 год **1 класс**

Задания, оцениваемые в 3 балла

1. Какой предмет есть на левом рисунке, но отсутствует на правом?

А) монитор Б) телефон В) мышка Г) принтер

2. Петя нарисовал такой рисунок:



Потом он одновременно поменял цвета всех квадратиков: белые стали чёрными, а чёрные – белыми. Какой рисунок получился у Пети?

А)  Б)  В)  Г) 

3. Собери правильно пирамидку и прочитай снизу вверх слово.



А) сканре Б) акснер
В) скарен Г) сканер

4. Какое число соответствует набору бусинок ниже, если бусинке ● соответствует цифра 2, бусинке ○ – цифра 0, а ◍ – цифра 1?

А) 211020 Б) 2001221 В) 1002112 Г) 2001220

5. Какой предмет стоит в таблице сверху над мышкой?

А) Б) В) Г)

6. Собери слова. Какой предмет **не** записан?

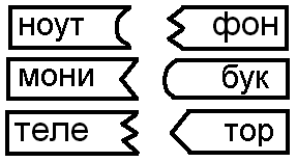

А) Б) В) Г)

7. Какая из картинок отличается от остальных?

А) 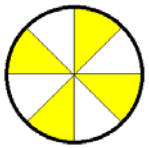 Б) 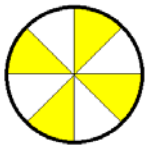 В) 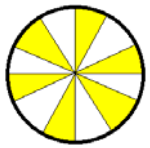 Г) 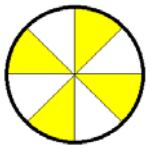

8. Дима выбрал только те цветы, у которых больше одного листочка и больше пяти лепестков. Сколько всего цветков выбрал Дима?

А) 1 Б) 5 В) 3 Г) 7

9. Название подарка для Толи зашифровано на рисунке справа. Что подарят Толе?

МОНИТОР

А) Б) В) Г)

10. Чтобы набрать текст «рН», Юра нажал на клавишу «р», а потом должен нажать на «н» вместе с клавишей…

А) Enter Б) Пробел В) Shift Г) Delete

Задания, оцениваемые в 4 балла

11. Какую трассу необходимо использовать?

А) 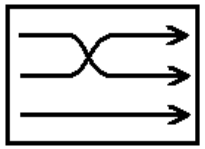 Б) 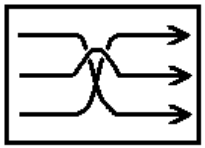 В) 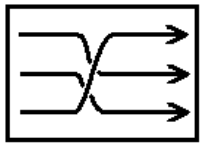 Г) 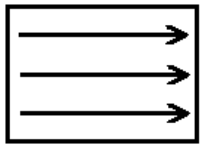

12. Электронные часы сломались так, что в одной ячейке стали отображаться два числа. Какие?

А) 7 и 9 Б) 1 и 8 В) 3 и 5 Г) 2 и 4

13. Фамилии всех учеников класса можно вписать в любое место в круге К, а фамилии мальчиков этого класса – в любое место в круге М. Как при этом должны располагаться круги?

А)

Б)

В) 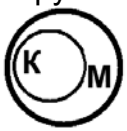

Г)

14. Какая схема движения приведёт космонавта в клетку с ракетой?

А) → → → ↓ → ↑ ←

Б) ↓ → ↓ → ↑ → → ↓

В) ↓ ↓ → → ↑ → →

Г) → → ↓ → → ↓ ←



15. Посмотри на цепочку справа и найди такую же.

А) 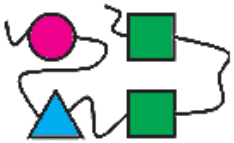 Б)

В) 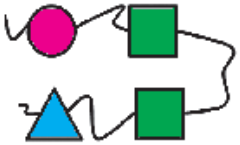 Г) 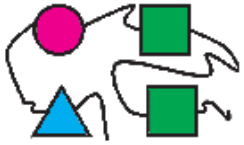

Задания, оцениваемые в 5 баллов

16. Надя стоит на улице перед домом, а Таня – во дворе за домом. Надя видит дом, как показано на рисунке справа. Как видит дом Таня?

А) Б) В) Г)

17. Лиса (**Л**) и Колобок (**К**), стоящие вначале как показано на рисунке ниже, одновременно шаг за шагом переходят на одну клетку вправо. Но, попав на клетку «е», Лиса переходит ещё на одну клетку вправо. На каком слове Лиса окажется на одной клетке с Колобком?

Л	**К**																														
Н	е		е	ш	ь		м	е	н	я	,		я		т	е	б	е		п	е	с	е	н	к	у		с	п	о	ю	.

А) ешь Б) меня В) тебе Г) песенку

18. Машина едет из А в В по **кратчайшему** пути по извилистой дороге с большим числом поворотов налево и направо. Сколько всего поворотов **налево** совершит машина?

А) 7 Б) 8 В) 9 Г) 10