www.konkurskit.org

Задания Всероссийского конкурса «Кит — компьютеры, информатика, технологии»

При выполнении заданий нужно выбрать правильный ответ.
Продолжительность тестирования – 45 минут.

2014 год **2-3 классы**

Задания, оцениваемые в 3 балла

1. Глобальная компьютерная сеть – это…

А) Икея Б) Интернет В) Wi-Fi Г) Википедия

2. Отгадайте загадку.

Нет, она не пианино, / Только клавиш в ней – не счесть!
Алфавита там картина, / Знаки, цифры тоже есть.
Очень тонкая натура. / Имя ей...

А) аббревиатура Б) клавиатура В) кандидатура Г) миниатюра

3. Выберите объект, который подходит для хранения и переноса информации.

А) Б) В) Г)

4. Какой из элементов картинки неверно отнесён к соответствующей группе объектов (множеству)?



А) дуб Б) яблоко В) рыба Г) сыр

5. Выберите путь, по которому шли пираты в поисках клада. Вместо карты они использовали подсказку →→↖↑→↓←←↑.

А) 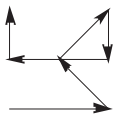 Б) 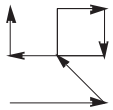 В) 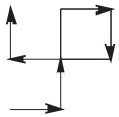 Г) 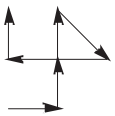

6. Выберите стрелку, которую обычно изображают на клавише Enter.

А) ↵ Б) ⇓ В) ⇒ Г) ↗

7. Звуковой сигнал светофора необходим для…

А) развлечения водителей
Б) информирования слабовидящих
В) указания направления движения
Г) информирования о неисправности

8. При авторизации в социальных сетях предлагается ввести логин и пароль. Пароль отображается в виде точек или звёздочек. Зачем?

А) так удобнее Б) для обеспечения безопасности
В) чтобы запутать Г) точки или звёздочки – это и есть пароль

9. Красящий компонент **НЕ** содержится в…

А) Б) В) Г)

10. Недостающая часть логотипа компании Apple выглядит как…

А) Б) В) Г)

Задания, оцениваемые в 4 балла

11. Разгадайте слово, зашифрованное в ребусе. Это устройство необходимо для…

А) печати Б) воспроизведения звука
В) съёмки видео Г) ввода информации

12. Известно, что Даша (Д) дружит с Аллой (А) и Верой (В), Галя (Г) дружит с Аллой (А), Алла (А) дружит с Верой (В). На схеме соединены линиями имена только тех девочек, которые дружат друг с другом. Выберите правильную схему.

А)

Б)

В) 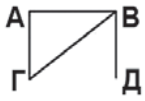

Г)

13. Определите номинал (стоимость) египетской банкноты. Цифры в Египте выглядят так:

0	1	2	3	4	5	6	7	8	9
٠	١	٢	٣	٤	٥	٦	٧	٨	٩

А) 10 Б) 20 В) 25 Г) 50

14. Определите дату Всемирного дня электросвязи и информационного общества, пройдя вдоль одной из ниточек.

А) 11 апреля Б) 27 марта
В) 17 мая Г) 21 июня

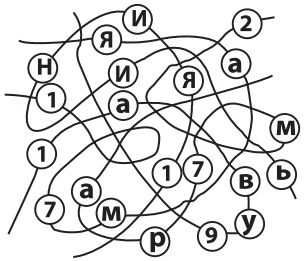

15. На обратной стороне каждой карточки написана какая-то буква (одинаковые картинки – одинаковые буквы). Если перевернуть карточки, то можно увидеть слово…



А) кондуктор Б) информатика В) компьютер Г) процессор

Задания, оцениваемые в 5 баллов

16. Общее количество папок и ярлыков на фрагменте рабочего стола равно…

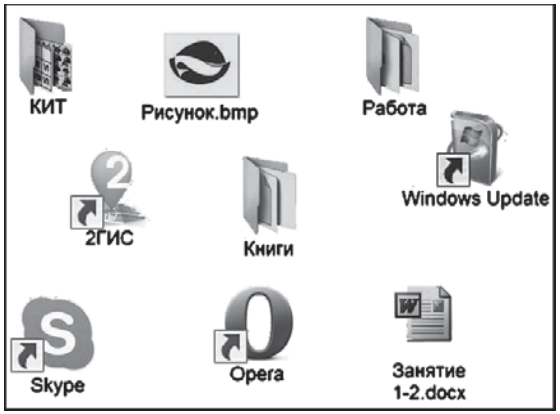

А) 5 Б) 6 В) 7 Г) 9

17. Для сборки лазерных мышек необходимы: источник луча (И), приёмник (П) и корпус (К). Какое количество мышей мы сможем собрать, пройдя по лабиринту **кратчайшим** путем?

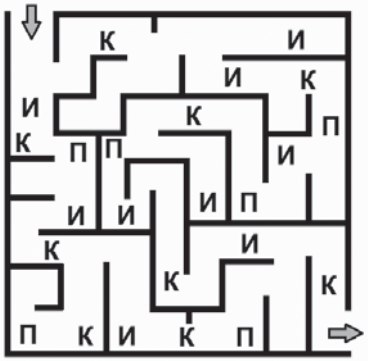

А) 6 Б) 2 В) 9 Г) 4

18. В программе «Калькулятор» последовательно нажали кнопки

A1 B3 ? A2 A1 ? B3 B2.

Какими кнопками необходимо заменить знаки вопроса «?», чтобы после нажатия кнопки «=» получить ответ 50?

	A	B	C	D
1	7	8	9	/
2	4	5	6	*
3	1	2	3	-
4	0		,	+

А) D1 и D4 Б) D3 и D4 В) D2 и D4 Г) D3 и D1

19. Вася нарисовал в редакторе Paint улыбающийся смайлик, разбив область на квадратики. У скольких квадратиков надо поменять цвет, чтобы превратить смайлик в смеющийся?

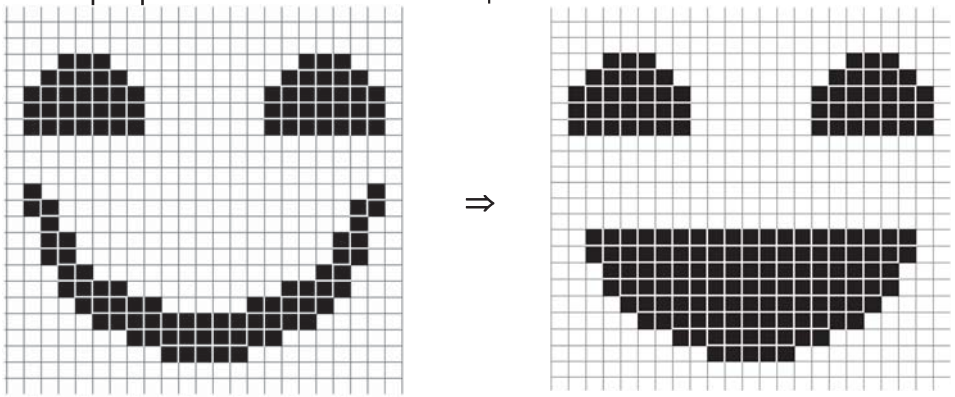

А) 47 Б) 65 В) 57 Г) 50

20. Красной Шапочке надо попасть из нижней левой клетки в верхнюю правую. Ходить можно только **вправо** или **вверх**. Попав в соответствующую клетку, она получает некоторое количество очков:

– болото (-1 очко)

– лес (+0 очков)

– опята (+2 очка)

– мухомор (-2 очка)

– поляна (+1 очко)

– ягоды (+1 очко)

Какое наибольшее количество очков может набрать Красная Шапочка?

А) 5 Б) 6 В) 3 Г) 4